ectif
Évaluation
- ☐ Non acquis
- ☐ En d acquisition
- ☐ Acquis

Nom :
Prénom :
Date :
Classe :

Objectif s:
- ✔ L'élève doit reconnaître la nature microscopique d'un des trois états de la matière.
- ✔ L'élève doit distinguer à partir d'un schéma, un corps pur et mélange.

Exercice 1:Si chaque motif représente une molécule, indique l'état physique correspondant aux schémas ci-dessous



Etat :



Etat :

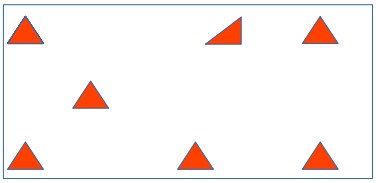

Etat :

Exercice 2 Si chaque motif représente une molécule légende le corps et le corps mélange



Corps :

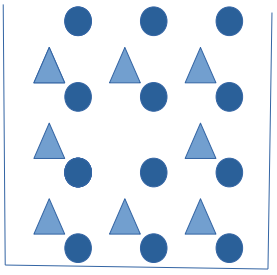

Corps :