L'air

Exercice1

L'air est une couche de gaz constitué essentiellement de diazote et dioxygène. Sachant qu'un échantillon d'air pur contient 20 % de dioxygène et 80 % le quel des documents ci-dessous représente l'air ?

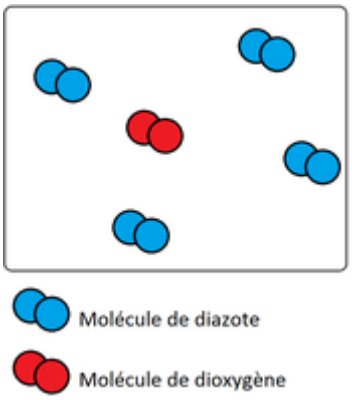

Doc.1

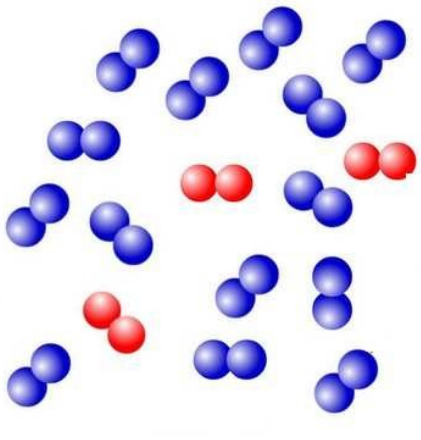

Doc.2

……

……

Exercice 2

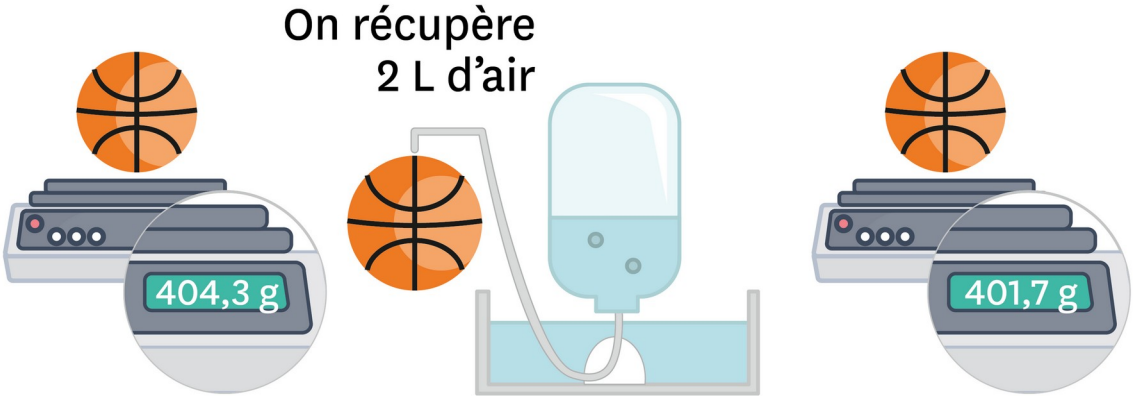

A l'aide du document ci-dessus, calcule :

1. **La masse de 2L d'air**

   ……

   ……

2. **La masse de 1 L d'air**

   ……

   ……